Всероссийская олимпиада школьников. 2018-2019 учебный год. _____
Искусство / МХК. Школьный этап.
10-11 класс. Продолжительность – 90 минут

1. Установите соответствие между атрибутами и их культурами. Ответ запишите в виде комбинации цифр и букв, цифры должны идти по порядку, например: 1а, 2в,3д.

1	2	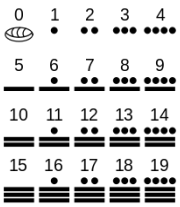 3
а **Ольмеки**	б **Ацтеки**	в **Майя**

Ответ: _____

2.) Кто изображён на рисунке? Запишите имя, которое он взял после смерти его отца.

Ответ: _____

3. Установите соответствие между авторами и их работами. Ответ запишите в виде комбинации цифр и букв, цифры должны идти по порядку, например: 1а, 2г, 3в, 4б.

Скопас 1	**Пракситель** 2	**Мирон** 3	**Поликлет** 4
а	б	в	г

Ответ: _____

4. Установите соответствие между стилями и их переводами с других языков. Ответ запишите в виде комбинации цифр и букв, цифры должны идти по порядку, например: 1а, 2г, 3в.

1. классицизм	а. дробленый камень, декоративная раковина, ракушка
2. рококо	б. причудливый, странный, склонный к излишествам
3. барокко	в. образцовый

Ответ: _____

5. Как называется один из видов первобытного искусства, в котором пещеры украшены множеством рисунков, выполненные людьми эпохи палеолита?

а) наскальная живопись б) каменная живопись
в) пещерное искусство г) настенное искусство
Ответ: _____

6. Обобщающее понятие для множества доисторических статуэток женщин, обладающих общими признаками. Статуэтки встречаются главным образом в Европе. Эти фигурки вырезаны из костей, бивней и мягких пород камня. Существуют также статуэтки, вылепленные из глины и подверженные обжигу. В целом, к началу XXI века было известно более ста таких статуэток, большинство из которых сравнительно небольшого размера — от 4 до 25 см в высоту. Напишите, какое общее название носят эти статуэтки. Ответ указать в именительном падеже.

Ответ: _____

7. Установите соответствие между определениями и их понятиями. Ответ запишите в виде комбинации цифр и букв, цифры должны идти по порядку, например: 1а, 2г, 3в.

1. тотемизм	а. понятие, используемое для описания системы мышления, при которой человек обращается к тайным силам с целью влияния на события
2. анимизм	б. некогда весьма распространенная и ныне ещё существующая религиозно-социальная система, в основании которой лежит своеобразный культ так называемого тотема
3. фетишизм	в. вера в существование души и духов, вера в одушевлённость всей природы
4. магия	г. религиозное поклонение (культ) неодушевлённым материальным предметам, которым приписываются сверхъестественные свойства

Ответ: _____

8. На рисунке изображена фреска «Крещение князя …». Укажите имя этого князя. Ответ указать в именительном падеже.

Ответ: _____

9. Установите соответствие между сооружениями и их названиями. Ответ запишите в виде комбинации цифр и букв, цифры должны идти по порядку, например: 1а, 2г, 3в, 4б.

1	2	3	4
Дольмен а	**Менгир** б	**Кромлех** в	**Курган** г

Ответ: _____

10. Схема чего представлена на рисунке?

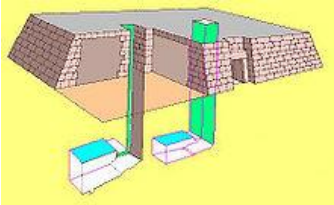

а) мастабы
б) склепа
в) усыпальницы
г) толосы

Ответ: _____

11. Это одно из старейших сохранившихся литературных произведений в мире, являющееся огромным художественным достижением. Он создавался на аккадском языке. Одно из названий – поэма «О всё видавшем». Какое другое название этого произведения?

а) Эпос Кёроглы
б) Эпос о Гильгамеше
в) Песнь о моём Сиде
г) Песнь о Нибелунгах

Ответ: _____

12. Эти русские князья считаются первыми
русскими святыми, канонизированными русской церковью. Кто они?

а) Владимир б) Борис в) Глеб г) Олег

Ответ: _____

13. На какой или каких из этих икон изображено «Сретение Господне».

а)

б)

в)



г)

Ответ: _____

Задание 14. Дайте письменный ответ на вопрос: «Нужен ли в современных условиях жизни балет?» (в ответе должны содержаться два аргумента, объём – от 60 слов)